Rheinland-Pfalz

1.Gedankenblase

Erstelle eine Gedankenblase zum Bundesland Rheinland-Pfalz!

2. Wappen

Male das Wappen in den richtigen Farben an. Male auch das Land Rheinland-Pfalz in der Karte farbig an.

3. Lage in Deutschland, Wappen, Bevölkerung

Lies den Infotext und finde Informationen zu folgenden Stichworten und schreibe es als Steckbrief auf und vervollständige die Sätze:

- Bundesland, Einwohner, Fläche, die größten Städte
- Diese europäischen Staaten grenzen an Rheinland-Pfalz:
- Im Süden grenzt Rheinland-Pfalz an das Bundesland…
- Im Norden grenzt Rheinland-Pfalz an das Bundesland…
- Im Osten grenzt Rheinland-Pfalz an die Bundesländer… und …

4. Landeshauptstadt Mainz

Lies den Infotext und schreibe die wichtigsten Informationen heraus. Beachte folgende Stichworte:

- Gründung
- Einwohner
- Mainz ist bekannt für…
- Bedeutende Bauwerke sind…

Lage in Deutschland, Wappen, Bevölkerung

Seit 1990 wird die Bundesrepublik Deutschland aus 16 Bundesländern gebildet. Die Bundesländer teilen sich weiter auf in Regierungsbezirke, (Land)kreise, kreisfreie Städte, in Gemeinden und Gemeindeverbände. Regierungsbezirke gibt es nur noch in Baden-Württemberg, Bayern, Hessen und Nordrhein-Westfalen. Dazu gibt es drei sogenannte Stadtstaaten, d.h. die Stadt ist zugleich Bundesland. Dazu gehören Hamburg, Bremen und Berlin.

Rheinland-Pfalz liegt im Südwesten Deutschlands und ist mit knapp 20.000km² von der Fläche her das neuntgrößte Bundesland. Es hat knapp 4 Millionen Einwohner. Damit ist es das 7. Bevölkerungsreichste Bundesland in Deutschland. Die größten Städte sind die Landeshauptstadt Mainz, Ludwigshafen, Koblenz, Trier, Kaiserslautern, Worms und Neuwied.

Die Hauptstadt- Mainz

Mainz wurde vor über 2000 Jahren von den Römern gegründet. Doch noch früher hatten die Kelten dort schon erste Siedlungen errichtet.

Mainz ist die Landeshauptstadt und mit über 200.000 Einwohnern auch die größte Stadt des Landes Rheinland-Pfalz. Im näheren Umkreis liegen die Großstädte Frankfurt am Main, Darmstadt, Ludwigshafen am Rhein und Mannheim. Mainz bildet mit der angrenzenden hessischen Landeshauptstadt Wiesbaden ein Zentrum mit fast einer halben Million Einwohnern.

Mainz ist eine der drei Hochburgen des rheinischen Karnevals. Es gibt sogar ein Fastnachtsmuseum, was die Geschichte der Mainzer Fastnacht seit 1837 zeigt. Ausgestellt werden z.B. Orden, Narrenkappen und Uniformen. Mit dem Staatstheater, weiteren Museen und Bühnen bietet Mainz jede Menge Kultur. Die Stadt ist Sitz mehrerer Fernseh-und Rundfunkanstalten, wie des Südwestrundfunks (SWR) und des Zweiten Deutschen Fernsehens (ZDF).

In der Stadt liegen die Johannes-Gutenberg-Universität und das Gutenberg-Museum. In diesem weltweit einzigen Museum für Druckkunst sieht man das Werk Gutenbergs. Bedeutende Bauwerke aus verschiedenen Epochen finden sich im Stadtbild: Der Mainzer Dom, das Kurfürstliche Schloss, das Landtagsgebäude (das ehemalige Deutschordenshaus). Eine Besonderheit der Stadt sind seit 1853 die Straßenschilder: Straßen mit roten Schildern verlaufen meist senkrecht zum Rhein, während Straßen, die parallel zum Rhein verlaufen, mit blauen Straßenschildern versehen werden.

5. Regionen, Gebirge, Flüsse

Auf den folgenden Seiten erfährst du einiges über die wichtigsten Regionen, Gebirge und Flüsse in Rheinland-Pfalz. Lies dir die Texte aufmerksam durch. Fülle anschließend den Lückentext richtig aus.

Die wichtigsten Flüsse

Aufgabe

Lies dir die Kärtchen zu den Flüssen durch. Zeichne sie dann dunkelblau in der Karte ein.

Der Rhein ist 1233 km lang und damit einer der längsten europäischen Flüsse. Er entspringt in der Schweiz und mündet in den Niederlanden in die Nordsee. Er fließt knapp 300 km durch Rheinland-Pfalz, die alten Städte Speyer, Worms und Mainz liegen an seinen Ufern. Er bildet die Grenze zwischen Rheinland-Pfalz und den benachbarten Bundesländern Baden-Württemberg und Hessen. Der Rhein ist die wichtigste Wasserstraße in Rheinland-Pfalz.

Die Mosel ist 544 km lang und damit der längste Nebenfluss des Rheins. Sie entspringt in Frankreich im Gebirge der Vogesen, fließt dann durch das Saarland und Rheinland-Pfalz. In Koblenz mündet sie in den Rhein, dieser Ort wird auch „Deutsches Eck“ genannt.

Die Wied ist ein rechter Nebenfluss des Rheins, der völlig auf dem Gebiet von Rheinland-Pfalz liegt. Sie entspringt im Westerwald und mündet nach 102 km bei der Stadt Neuwied in den Rhein.

Die Lahn entspringt im Rothaargebirge in Nordrhein-Westfalen und ist insgesamt 245 km lang. Sie fließt dann durch Hessen und Rheinland-Pfalz. Hier mündet sie bei der Stadt Lahnstein nahe Koblenz in den Rhein.

Die Nahe entspringt im Saarland. Sie ist 125 km lang und mündet bei der Stadt Bingen in den Rhein. Bei Bingen steht der Binger Mäuseturm, ein ehemaliger Wehr- und Wachturm.

Die Ahr ist ein linker Nebenfluss des Rheins. Sie ist 85 km lang. Ihre Quelle liegt in der Eifel in dem Ort Blankenheim. Sie fließt durch Nordrhein-Westfalen und Rheinland-Pfalz, wo sie bei der Stadt Remagen den Rhein erreicht.

Der Speyerbach ist ein kleiner linker Nebenfluss des Rheins. Er entspringt bei Speyerbrunn. Nach gut 60 km mündet er bei Speyer in den Rhein.

Die Regionen – Überblick

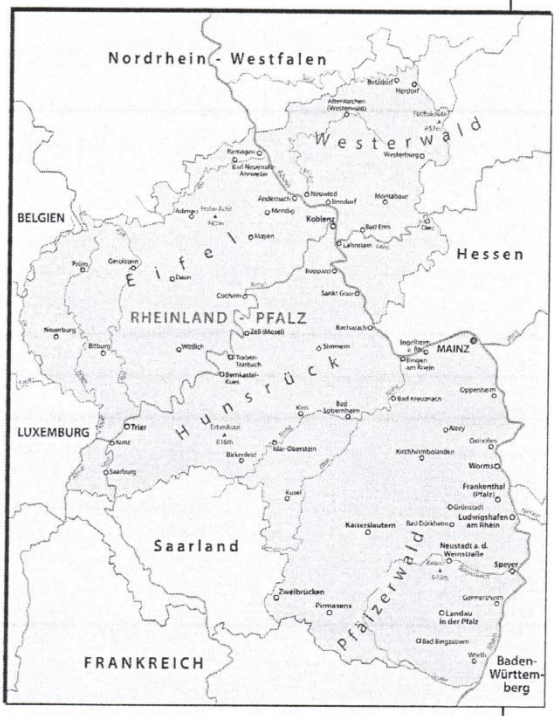

Das Land Rheinland-Pfalz gliedert sich in die folgenden Regionen:

Der Mittelrhein liegt zwischen Bingen am Rhein, wo die Nahe mündet, und Bonn, wo der Mittelrhein beim Siebengebirge in das Norddeutsche Tiefland übergeht.
Auf der 67 km langen Strecke von Bingen bis Koblenz findet man um die 40 Burgen und Schlösser.

Der Oberrhein
Als Oberrhein wird ein rund 350 km langer Teil des Rheins zwischen Basel und Bingen bezeichnet. Die beiden größten Städte des Bundeslandes – Mainz und Ludwigshafen – liegen am Oberrhein, wie auch die alten Städte Speyer und Worms.

Das Moseltal
Die Mosel fließt durch das Saarland und Rheinland-Pfalz und mündet in Koblenz in den Mittelrhein. Von Trier an abwärts trennt die Mosel die beiden Mittelgebirge Eifel und Hunsrück. Hier gibt es viele Weinorte.

Der Taunus grenzt auf der rechten Rheinseite an den Hunsrück. Nur der nordwestliche Teil des Taunus liegt in Rheinland-Pfalz, der Großteil des Gebirges gehört zum Bundesland Hessen. Die höchsten Erhebungen sind der Kleine und der Große Dachskopf, die um die 450 m hoch sind.

Der Westerwald liegt im Dreieck der Bundesländer Rheinland-Pfalz, Hessen und Nordrhein-Westfalen. Sein höchster Berg liegt in Rheinland-Pfalz und Hessen: die Fuchskaute (657 Meter hoch).

Der Hunsrück liegt zwischen Eifel und Pfälzerwald. Er ist ungefähr 100 km lang und 30 km breit. Auch der höchste Berg des Landes, der Erbeskopf mit 816 Metern Höhe, liegt im Hunsrück.

Die Eifel erstreckt sich über die Länder Belgien und Luxemburg und die Bundesländer Nordrhein-Westfalen und Rheinland-Pfalz. In Deutschland liegt sie ungefähr zwischen den Städten Aachen, Trier und Koblenz. Ihr höchster Berg in Rheinland-Pfalz ist die Hohe Acht (747 Meter hoch).

Der Pfälzerwald im Süden des Landes bildet Deutschlands größtes zusammenhängendes Waldgebiet. Der Wald nimmt über ein Drittel der Pfalz ein. Der höchste Berg ist der Kalmit mit 672 Metern Höhe.

Lückentext: Regionen, Gebirge, Flüsse

Das Land Rheinland-Pfalz gliedert sich in die folgenden Regionen: _____
_____
_____
_____.

Auf der Strecke von Bingen bis _____ findet man um die _____ _____ und _____ . Der Westerwald liegt im Dreieck der Bundesländer Rheinland-Pfalz, Hessen und Nordrhein-Westfalen. Sein höchster Berg ist die _____ mit einer Höhe von _____ Metern. Doch den höchsten Berg findet man im Hunsrück. Der _____ _____ ist _____ Meter hoch. Das größte zusammenhängende Waldgebiet Deutschlands findet man im _____ . Der höchste Berg ist hier der _____ mit _____ Metern Höhe.

Die wichtigsten Flüsse in Rheinland- Pfalz sind: _____
_____
_____
_____ . Der Rhein ist _____ km lang und die wichtigste _____ _____ in Rheinland-Pfalz. Der längste _____ des Rheins ist die Mosel. Sie entspringt in Frankreich und mündet in Koblenz in den Rhein. Dieser Ort wird auch _____ genannt. Im Saarland entspringt die Nahe. Der _____ km lange Fluss mündet bei der Stadt _____ in den Rhein. Bei Bingen steht der Binger _____ _____ , ein ehemaliger _____ .

6. Landkreise und kreisfreie Städte



Rheinland-Pfalz

Landkreise

1) Altenkirchen
2) Ahrweiler
3) Neuwied
4) Westerwaldkreis
5) Mayen-Koblenz
6) Rhein-Lahn-Kreis
7) Eifelkreis Bitburg-Prüm
8) Vulkaneifel
9) Bernkastel-Wittlich
10) Cochem-Zell
11) Rhein-Hunsrück-Kreis
12) Trier-Saarburg
13) Birkenfeld
14) Bad Kreuznach
15) Mainz-Bingen
16) Kusel
17) Donnersbergkreis
18) Alzey-Worms
19) Kaiserslautern
20) Bad Dürkheim
21) Rhein-Pfalz-Kreis
22) Südwestpfalz
23) Südliche Weinstraße
24) Germersheim

Kreisfreie Städte

A) Koblenz
B) Trier
C) Mainz
D) Kaiserslautern
E) Worms
F) Frankenthal
G) Ludwigshafen
H) Zweibrücken
I) Pirmasens
J) Landau/Pfalz
K) Neustadt/Weinstraße
L) Speyer

Große kreisangehörige Städte

1. Andernach, Landkreis Mayen-Koblenz
2. Bad Kreuznach, Landkreis Bad Kreuznach
3. Bingen am Rhein, Landkreis Mainz-Bingen
4. Idar-Oberstein, Landkreis Birkenfeld
5. Ingelheim am Rhein, Landkreis Mainz-Bingen
6. Lahnstein, Rhein-Lahn-Kreis
7. Mayen, Landkreis Mayen-Koblenz
8. Neuwied, Landkreis Neuwied

Aufgabe *Zeichne die Grenzen deines Kreises mit einem roten Stift nach.*

Aufgabe *Markiere rot in der Karte und in der Tabelle, wo du wohnst.*

7. Was steht auf dem Nummernschild?

Sieh dir die Liste der Landkreise und kreisfreien Städte genau an. Schreibe die folgenden Landkreise/kreisfreien Städte ab und trage dahinter die passende Abkürzung ein. Markiere die Kreise in der Karte mit einem blauen Stift.

Ahrweiler, Bad Kreuznach, Donnersbergkreis, Germersheim, Kaiserslautern, Neuwied, Ludwigshafen, Rhein-Hunsrück-Kreis, Landau, Speyer

Liste der Landkreise und kreisfreien Städte in Rheinland-Pfalz

Landkreis/kreisfreie Stadt	Kfz	Einwohner
Ahrweiler	AW	128.914
Altenkirchen	AK	128.791
Alzey-Worms	AZ	128.519
Bad-Dürkheim	DÜW	132.739
Bad Kreuznach	KH	157.549
Bernkastel-Wittlich	WIL, BKS	112.134
Birkenfeld	BIR	80.728
Cochem-Zell	COC, ZEL	61.662
Donnersbergkreis	KIB, ROK	75.102
Eifelkreis Bitburg-Prüm	BIT, PRÜ	98.213
Frankenthal	FT	48.417
Germersheim	GER	128.477
Kaiserslautern	KL	105.649
Koblenz	KO	113.844
Kusel	KUS	70.764
Landau	LD	46.292
Ludwigshafen	LU	168.497
Mainz	MZ	215.110
Mainz-Bingen	MZ, BIN	209.785
Mayen-Koblenz	MYK, MY	213.554
Neustadt an der Weinstraße	NW	53.353
Neuwied	NR	181.655
Pirmasens	PS	40.632
Rhein-Hunsrück-Kreis	SIM, GOA	102.938
Rhein-Lahn-Kreis	EMS, DIZ, GOH	122.381
Rhein-Pfalz-Kreis	RP	153.629
Speyer	SP	50.931
Südliche Weinstraße	SÜW	110.622
Südwestpfalz	PS, ZW	95.474
Trier	TR	110.013
Trier-Saarburg	TR, SAB	148.532
Vulkaneifel	DAU	60.705
Westerwaldkreis	WW	201.039
Worms	WO	83.081
Zweibrücken	ZW	34.270

8. Geheimschrift Rheinland-Pfalz!



Detektiv Toppi hat ein merkwürdiges Schreiben zugeschickt bekommen. „Geheimsache Rheinland-Pfalz" lautet die Überschrift.
Der Text des Schreibens ist verschlüsselt. Toppi entdeckt jedoch die Geheimschrift und beginnt, den Text zu übersetzen und aufzuschreiben. Aber das kannst du mit etwas Geschick auch. Schau dir einmal die Geheimschrift genauer an. Zur Lösung mußt du die Zahlen im Text durch die richtigen Buchstaben ersetzen.
Schreibe den Lösungstext der „Geheimsache Rheinland-Pfalz" unten in die dafür vorgesehenen Freizeilen.

Geheimschrift:

A	E	G	I	R	O	S	T	U
1	2	3	4	5	6	7	8	9

Ü = UE, Ö = OE, Ä = AE, ß = SS

Geheimsache Rheinland-Pfalz

D17 B9ND27L1ND 5H24NL1ND-PF1LZ B2782H8 197 9N8257CH42DL4CH2N L1ND7CH1F82N. D2N 35627782N 824L D27 L1ND27 N2HM2N D42 M4882L32B4532 24N, 4N D42 74CH D42 FL92772 842F 24N327CHN4882N H1B2N. D25 5H24N 478 D25 L12N3782 FL977. 25 478 19CH D42 B2D2982ND782 W177257851772. V6N K15L759H2 B47 B1CH151CH B4LD28 25 D42 352NZ2 Z9 B1D2N-W925882MB253 9ND H2772N. ZW47CH2N B4N32N 9ND K6BL2NZ ZW12N38 74CH D25 5H24N D95CH D17 H1582 7CH42F25327824N D27 H9N7592CK7 9ND 819N97. 4M L19F2 V6N J1H581972ND2N 478 D658 24N2 D25 7CH62N782N FL977L1ND-7CH1F82N 2956P17 2N8781ND2N.